نام و نام خانوادگی: **کلاس سوم** **ریاضی**

۱- نام شکل های زیر را بنویسید.

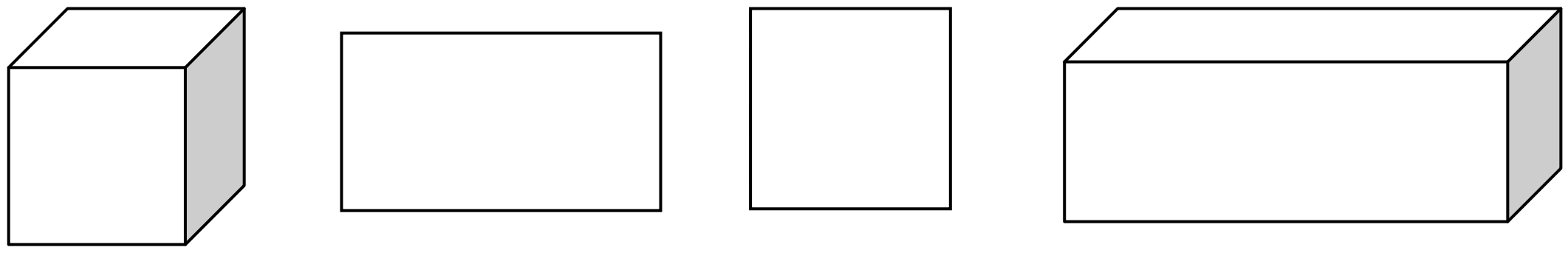

....

۲- کدام شکل گسترده ی یک مکعب است؟

۱) ۲) ۳)

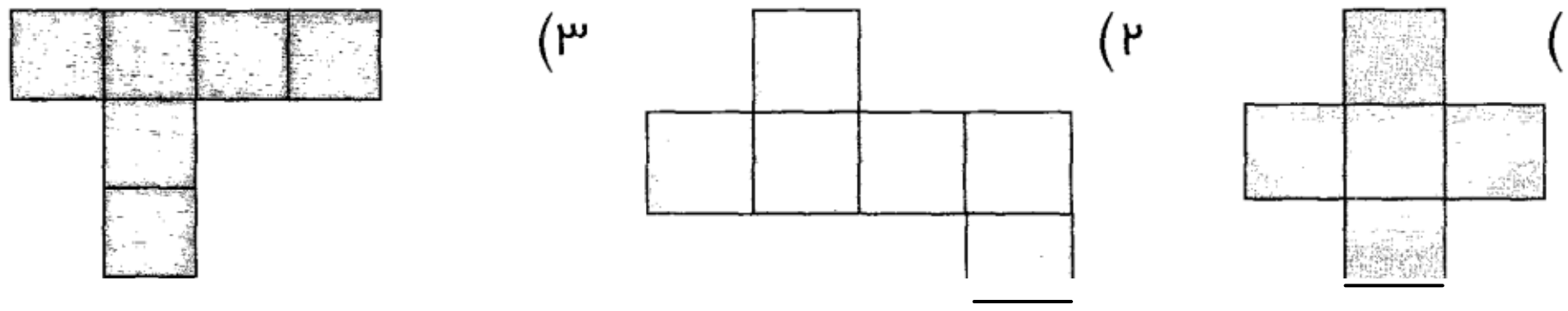

۳ـ مکعب مستطیل زیر چند وجه دارد؟



۴ـ یک مکعب ....وجه، ....ضلع و.............رأس دارد.

۵ـ سه شیء نام ببرید که به شکل مکعب مستطیل باشد.

۶ـ گسترده‌ی یک مکعب را رسم کنید.

۷ـ کدام یک از اجسام زیر به شکل مکعب مستطیل می‌باشد.

قوطی کنسرو○ توپ○ آجر○ کلّه‌ی قند○

۸ـ گسترده‌ی مکعب از .... مربع تشکیل شده است.

۳○ ۴○ ۵○ ۶○

۹ـ در شکل‌های زیر چند مکعب می‌بینید؟

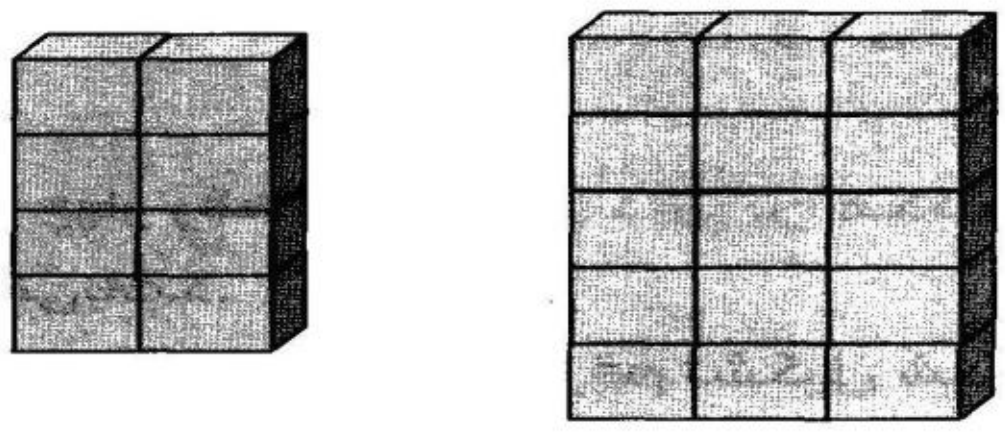

۱۰ـ گسترده‌ی یک مکعب مستطیل را رسم کنید.